NOME: _____ DATA: / /

PARA CASA DE PORTUGUÊS



1. Complete com X ou CH depois separe as sílabas no caderno.

a) En[ ]ada
b) Ca[ ]umba
c) Pei[ ]ada
d) Co[ ]ilar
e) Embai[ ]o
f) En[ ]er
g) Guin[ ]o
h) Pu[ ]ar
i) ca[ ]os

2. Observe a imagem abaixo e escreva um texto sobre ela no caderno, não esqueça o título e os parágrafos.



atividadesdasabrina.com.br

NOME: _____ DATA: / /

PARA CASA DE PORTUGUÊS



1. Escreva o antônimo das palavras abaixo no caderno:

a) alto
b) cheio
c) claro
d) grande
e) bom
f) pobre
g) valente
h) feliz

2. Complete o quadro com o aumentativo e o diminutivo das palavras:



DIMINUTIVO	PALAVRA	AUMENTATIVO
	CASA	
	GATO	
	CACHORRO	
	PATO	
	BONITO	
	PEIXE	

atividadesdasabrina.com.br

NOME: _____ DATA: / /

PARA CASA DE PORTUGUÊS

1. Reescreva as frases abaixo no caderno passando do singular para o plural.

a) Maria comprou caneta, régua e caderno.
b) Papai trouxe biscoito e pão.
c) Eu comi banana, maçã e morango.
d) A viagem foi maravilhosa.

2. Forme frases interrogativas com: (no caderno):

a) chuva
b) amigo
c) escola
d) prova



3. As frases abaixo possuem erros de ortografia e concordância. Reescreva as frases corretamente.

a) Os meninos gostam de jogarem bola no recreio.
b) Os livros da biblioteca está desarrumados.
c) Aquelas fruta está maduras.
d) Minha irmã e eu gosta de bolo de cenoura.

NOME: _____ DATA: / /

PARA CASA DE PORTUGUÊS

1. Reescreva as frases no caderno, passando os verbos do tempo presente para o passado.

a) Naquele aniversário posso rever várias pessoas.
b) Marcelo brinca muito de amarelinha.
c) Mariana já tem ingresso para o cinema.
d) As meninas amam aquele cantor.

2. Escreva uma frase para cada verbo indicado abaixo: (no caderno)

a) Esperar (presente)
b) Emprestar (passado):
c) Ganhar (futuro):
d) Falar (futuro):



3. Separe as sílabas e classifique em oxítonas, paroxítonas ou proparoxítonas: (no caderno)

a) carrossel
b) passado
c) fantasia
d) vassoura

NOME: _____ DATA: / /

PARA CASA DE MATEMÁTICA



atividadesdasabrina.com.br

1. Resolva as operações abaixo no caderno e tire a prova real.

a) 236 + 138
b) 368 +225
c) 782 - 357
d) 971 - 437
e) 652 + 258
f) 761 - 536
g) 549 + 237
h) 545 + 348

2. Escreva por extenso o nome dos números abaixo (no caderno):

a) 1432
b) 658
c) 5430
d) 985
a) 1679
b) 586
c) 562
d) 7241

3. Ana Clara e a mãe foram ao teatro assistir uma peça infantil. Para essa apresentação, 199 pessoas já estavam dentro do teatro e 96 estavam na fila para entrar. Quantas pessoas assistiram à peça nesta sessão? (Faça o calculo e a resposta no caderno.)

NOME: _____ DATA: / /

PARA CASA DE MATEMÁTICA



atividadesdasabrina.com.br

1. Resolva no caderno.

a) 342 X 5
b) 125 X 4
c) 523 X 2
d) 156 X 3
e) 67 X 7
f) 521 X 3
g) 872 X 3
h) 371 X 6

2. Desenhe os sólidos geométricos abaixo no caderno:

CUBO TRIÂNGULO CILINDRO PARALELEPIPEDO

3. Paloma comprou 72 adesivos para colocar em sacolas de presente no seu aniversário. Ela quer dividir os adesivos igualmente em 9 sacolas. Quantos adesivos cada sacola terá? Realize a operação e a resposta no caderno.

NOME:



PARA CASA DE MATEMÁTICA

1. Arthur pegou um livro na biblioteca da escola em que estuda. O livro possui 242 páginas. Arthur leu 87. Quantas páginas ainda faltam para ele finalizar a leitura desse livro?

Operação | Resposta

2. Marcos é dono de uma montadora de carros. Para montar 40 carros com quatro pneus cada, Paulo precisará de quantos pneus?

Operação | Resposta

3. Um teatro será construído em Belo Horizonte. Ele possuirá 9 filas com 53 poltronas em cada uma delas. Em sua capacidade máxima, quantas pessoas poderão assistir às peças?

Operação | Resposta

4. Carlos coleciona figurinhas do Flamengo. Ele acabou de completar um álbum com 256 figurinhas. Em cada página, ele colou 8 figurinhas. Assim sendo, quantas páginas esse álbum tem?

Operação | Resposta

NOME:



PARA CASA DE MATEMÁTICA

1. UMA FILA TEM 11 PESSOAS. HELENA ESTÁ EXATAMENTE NO MEIO DA FILA E GABRIEL É O ÚLTIMO DA FILA. QUANTAS PESSOAS ESTÃO ENTRE HELENA E GABRIEL? DESENHE A FILA NO SEU CADERNO E APONTE QUEM É HELENA E QUEM É GABRIEL.

2. A FIGURA MOSTRA A FRENTE DE UM PRÉDIO. O NÚMERO DE JANELAS DE TRÁS É O DOBRO DO NÚMERO DE JANELAS DA FRENTE E NÃO HÁ OUTRAS JANELAS NO PRÉDIO. QUANTAS JANELAS HÁ NO PRÉDIO INTEIRO? DESENHE A PARTE DE TRÁS DO PRÉDIO E RESPONDA O NÚMERO TOTAL DE JANELAS NO CADERNO.



atividadesdasabrina.com.br

3. DANIEL ABRIU 2 TANGERINAS, CADA TANGERINA QUE ELE ABRIU TINHA 9 GOMOS E CADA GOMO TINHA 2 SEMENTES. QUANTAS SEMENTES ELE ENCONTROU NO TOTAL?



TERMOS DE USO DESSE MATERIAL

Este material foi elaborado pela @profsabrinacastro.

Responsável pelo blog atividadesdasabrina.com.br

A utilização deste material é apenas para USO PESSOAL. Professores e pais podem imprimir para usarem em suas salas de aula com seus alunos ou em casa com seus filhos.

O QUE NÃO PODE

- **Não pode vender ou revender esse material;**
- **Não pode postar ou distribuir em nenhum site da internet;**
- **Não pode distribuir em grupos de facebook, whatsApp ou telegram;**
- **Não pode arquivar publicamente em drives ou outros semelhantes de forma pública para que outra pessoa possa ter acesso.**

COMPARTILHAMENTO

Use sempre o link que você usou para adquirir o material, assim você estará ajudando o nosso trabalho.

DIREITOS DE IMAGENS

Todos os direitos de imagens são de seus autores especificados abaixo:

Me siga nas redes sociais:

@profsabrinacastro facebook.com/**atividadesdasabrina**

NÃO É PERMITIDO NENHUM USO COMERCIAL DESTE MATERIAL. Material protegido pelos direitos autorais conforme a LEI Nº 9.610, DE 19 DE FEVEREIRO DE 1998. EVITE PROBLEMAS JURÍDICOS.