NOME:

PROFESSORA: TURMA: DATA: - -

Avaliação de Matemática

1. Na escola da Juliana tem 256 alunos.
No número 256, o algarismo 5 ocupa a ordem das:

(A) centenas.

(B) dezenas.

(C) unidades.

(D) unidades de milhar.



atividadesdasabrina.com.br

2. A turma de Juliana construiu um boneco utilizando formas geométricas.
As formas geométricas que aparecem no boneco são:

(A) círculo, quadrado, retângulo e triângulo.

(B) losango, quadrado, círculo e triângulo.

(C) quadrado, círculo, losango e retângulo.

(D) retângulo, losango, quadrado e círculo.



3. No outro dia, a turma do 4º ano da escola resolveu fazer uma torta para comemorar os aniversariantes do mês. Entre os produtos utilizados para fazer a torta, o ingrediente vendido em quilo é:

(A) 

(C) 

(B) 

(D) 

4. Bianca assistiu a um filme que teve início às 14he30min e terminou às 17 horas. Quanto tempo durou esse filme?



(A) 2 horas

(B) 2 horas e 30 minutos

(C) 3 horas

(D) 3 horas e 30 minutos



5. Veja a operação abaixo:

146 + 73

O resultado dessa operação é:

(A) 73

(B) 229

(C) 219

(D) 291

atividadesdasabrina.com.br

6. Veja a operação abaixo:

479 + 238

O resultado exato dessa conta é:

(A) 231 (B) 241

(C) 707 (D) 717

7. Lara comprou um sapato no valor de 69 reais. Ela pagou essa compra com uma nota de 100 reais.
Quantos reais Lara recebeu de troco nessa compra?

(A) 31

(B) 41

(C) 49

(D) 69



8. O gráfico a seguir mostra o número de refeições em um restaurante, durante alguns meses do ano.

De acordo com o gráfico, o mês que obteve o menor número de refeições vendidas, foi:

(A) agosto

(B) julho

(C) outubro

(D) setembro

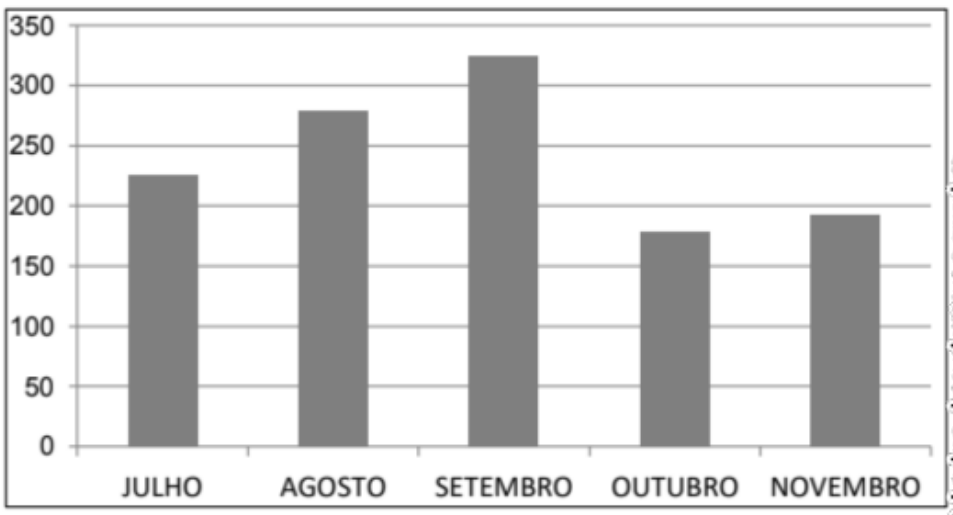

atividadesdasabrina.com.br

9. Mateus distribuiu igualmente 24 ovos em 3 cestos. Quantos ovos ele colocou em cada cesto?

(A) 39 (C) 8

(B) 18 (D) 12

10. Veja as figuras geométricas abaixo.

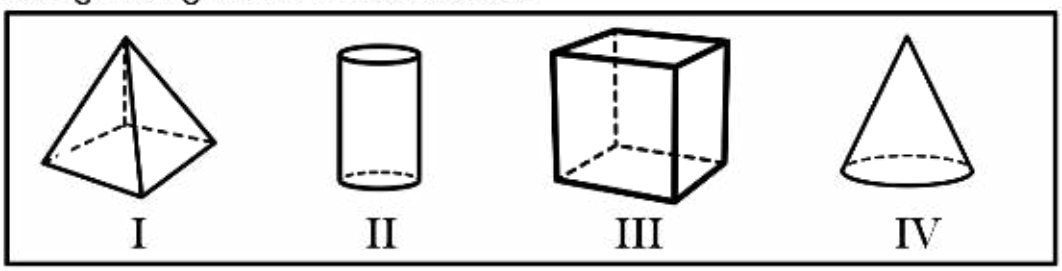

As figuras II e IV, são, respectivamente:

(A) cilindro e pirâmide (C) cilindro e cone

(B) cone e pirâmide (D) quadrado e cone

11. Na casa da Júlia, há quatro aquários com nove peixes em cada um deles. Quantos peixes há na casa da Júlia?



(A) 9

(B) 32

(C) 36

(D) 19

12. Observe o número abaixo.

680

Esse número pode ser decomposto da seguinte forma:

(A) 6 + 8 (C) 60 + 8

(B) 60 + 80 (D) 600 + 80

atividadesdasabrina.com.br

TERMOS DE USO DESSE MATERIAL



Este material foi elaborado pela @profsabrinacastro.

Responsável pelo blog atividadesdasabrina.com.br

A utilização deste material é apenas para USO PESSOAL. Professores e pais podem imprimir para usarem em suas salas de aula com seus alunos ou em casa com seus filhos.

O QUE NÃO PODE

- **Não pode vender ou revender esse material;**
- **Não pode postar ou distribuir em nenhum site da internet;**
- **Não pode distribuir em grupos de facebook, whatsApp ou telegram;**
- **Não pode arquivar publicamente em drives ou outros semelhantes de forma pública para que outra pessoa possa ter acesso.**

COMPARTILHAMENTO

Use sempre o link que você usou para adquirir o material, assim você estará ajudando o nosso trabalho.

DIREITOS DE IMAGENS

Todos os direitos de imagens são de seus autores especificados abaixo:









Me siga nas redes sociais:

@profsabrinacastro

facebook.com/**atividadesdasabrina**

NÃO É PERMITIDO NENHUM USO COMERCIAL DESTE MATERIAL.
Material protegido pelos direitos autorais conforme a LEI Nº 9.610, DE 19 DE FEVEREIRO DE 1998. EVITE PROBLEMAS JURÍDICOS.