@profsabrinacastro

NOME:

JANEIRO	FEVEREIRO	MARÇO	ABRIL	MAIO	JUNHO	JULHO	AGOSTO	SETEMBRO	OUTUBRO	NOVEMBRO	DEZEMBRO

DOMINGO	SEGUNDA	TERÇA	QUARTA	QUINTA	SEXTA	SÁBADO
1	2	3	4	5	6	7
8	9	10	11	12	13	14
15	16	17	18	19	20	21
22	23	24	25	26	27	28
29	30	31				

1. Decomponha os números abaixo:



a) 32 _____

b) 43 _____

c) 55 _____

d) 26 _____

e) 41 _____

f) 58 _____

2. Organize os números abaixo em:



- Ordem crescente:

_____

_____

_____

- Ordem decrescente:

_____

_____

_____

@profsabrinacastro



NOME:

JANEIRO	FEVEREIRO	MARÇO	ABRIL	MAIO	JUNHO	JULHO	AGOSTO	SETEMBRO	OUTUBRO	NOVEMBRO	DEZEMBRO

DOMINGO	SEGUNDA	TERÇA	QUARTA	QUINTA	SEXTA	SÁBADO

1	2	3	4	5	6	7	8	9	10	11	12	13	14	15	16	17	18	19	20	21	22	23	24	25	26	27	28	29	30	31

1. Conte as quantidades representadas com material dourado e registre:

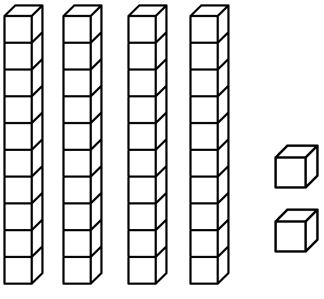

D	U

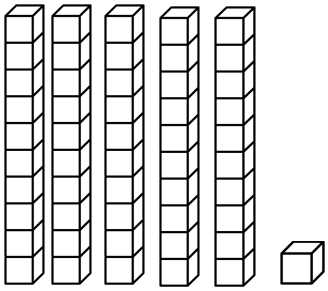

D	U

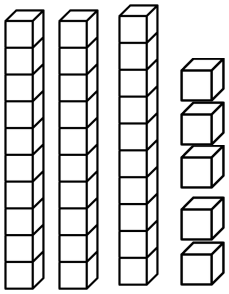

D	U

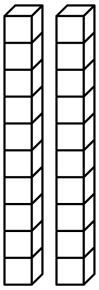

D	U

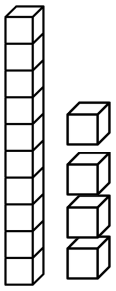

D	U



2. Complete a sequência numérica:

1									10
				15					
									30
31									
									50

TERMOS DE USO DESSE MATERIAL

Este material foi elaborado pela @profsabrinacastro
Responsável pelo blog
https://www.atividadespedagogicas2.com/

A utilização deste material é apenas para USO PESSOAL.
Professores e Pais podem imprimir para utilizar em sua sala de aula, com seus alunos, ou em casa com seus filhos.

O QUE NÃO PODE:

- Não pode vender ou revender este material;
- Não pode postar ou distribuir em nenhum site na internet;
- Não pode distribuir em grupos de Facebook, WhatsApp ou Telegram
- Não pode arquivar publicamente em drives ou outros semelhantes de forma pública para que outras pessoas possam ter acesso.

COMPARTILHAMENTO

Use sempre o link, assim você contribui com o nosso trabalho.

DIREITOS DE IMAGENS

Todos os direitos de imagens são de seus autores especificados abaixo:

NÃO É PERMITIDO Qualquer uso comercial desse material.
MATERIAL PROTEGIDO PELOS DIREITOS AUTORAIS CONFORME A LEI Nº 9.610, DE 19 DE FEVEREIRO DE 1998. EVITE PROBLEMAS JURÍDICOS.